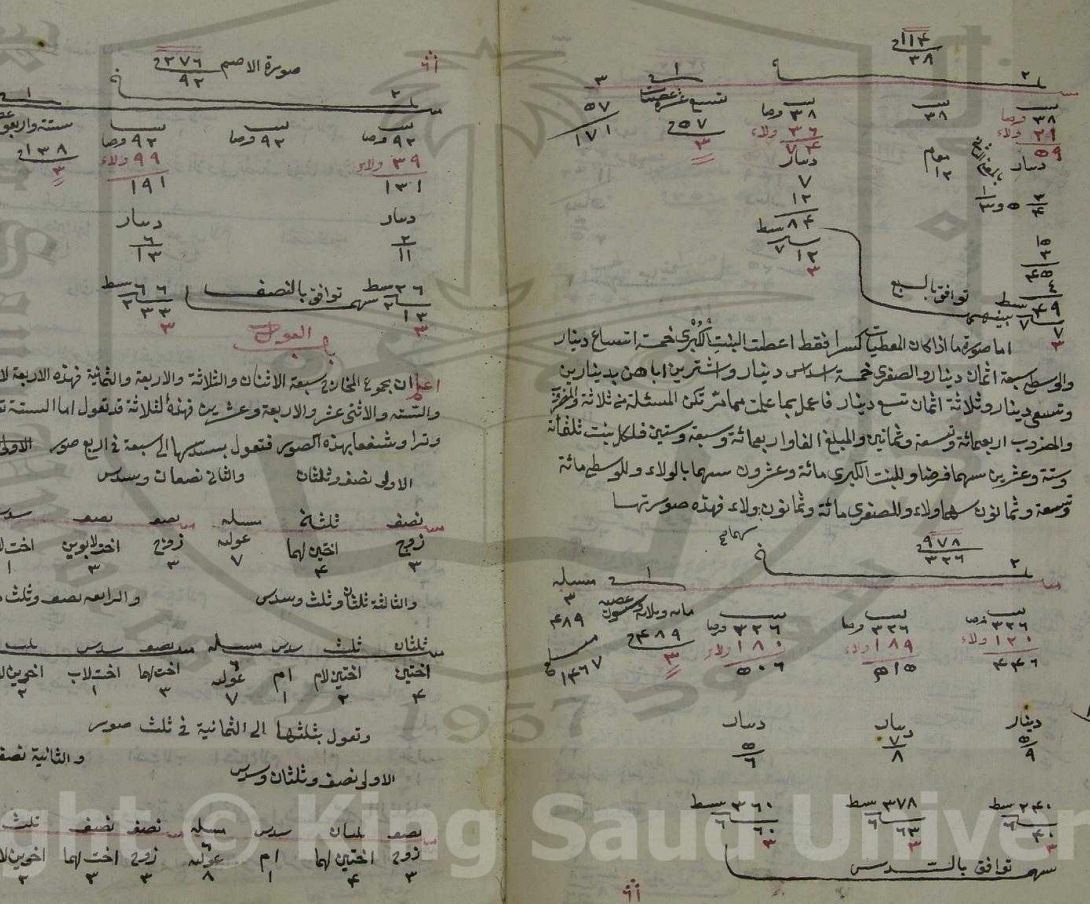

اما صورتها اذا كان المعطى كسرا فقط اعطت البنت الكبرى خمسة اتساع دينار والوسطى سبعة اتساع دينار والصغرى خمسة اتساع دينار والمشترين اباهن بدينارين وتسوى دينارا وثلاثة اثمان تسع دينار فاعمل بما علمت مما مر تكن المسئلة من ثلاثة والمفرق والمضروب اربعمائة وتسعة وثمانين والمبلغ الفا واربعمائة وسبعة وسبعين فلكل بنت ثلثمائة وستة وعشرين سهما فرضا وللبنت الكبرى مائة وعشرون سهما بالولاء وللوسطى مائة وسبعة وثمانون سهما ولاء وللصغرى مائة وثمانون ولاء فهذه صورتها

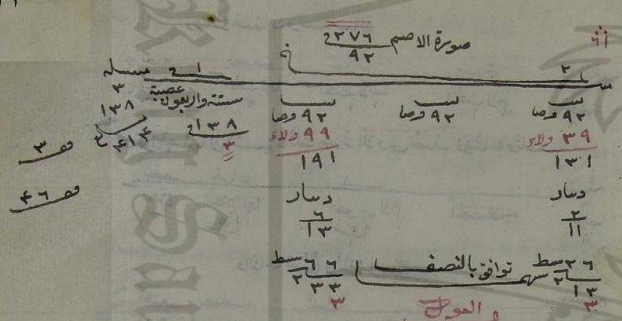

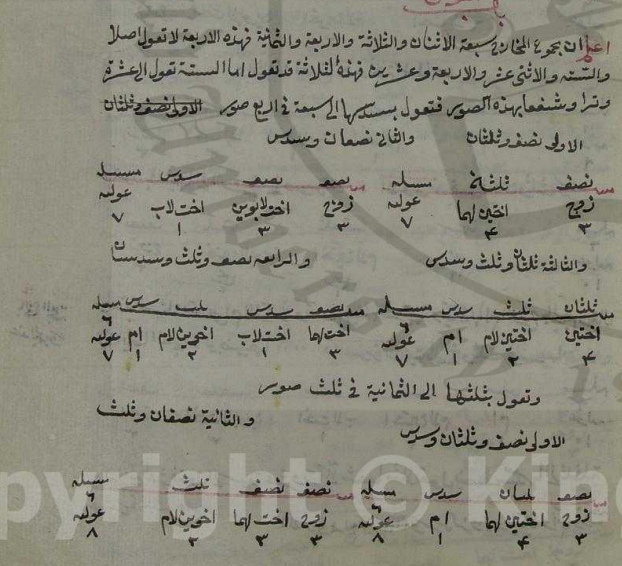

باب العول

اعلم ان مجموع المخارج سبعة الاثنان والثلاثة والاربعة والثمانية فهذه الاربعة لا تعول اصلا والستة والاثنى عشر والاربعة وعشرين فهذه الثلاثة قد تعول اما الستة تعول العشرة وترا وشفعا بهذه الصور فتعول بسدسها الى السبعة في اربع صور

الاولى نصف وثلثان والثانى نصفان وسدس

والثالثة ثلثان وثلث وسدس والرابعة نصف وثلث وسدستان

وتعول بثلثها الى الثمانية في ثلث صور

الاولى نصف وثلثان وسدس والثانية نصفان وثلث