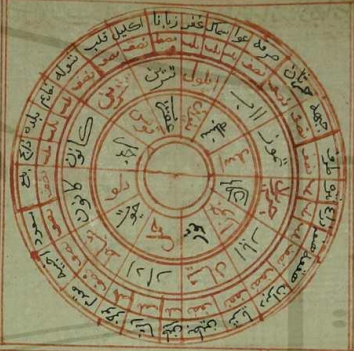

اذا قسمت منطقة البروج بائنى عشر قسما متساوية من عند نقطة الاعتدال

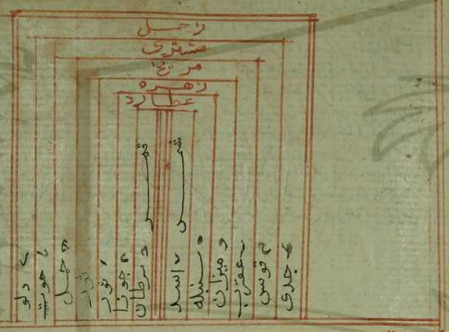

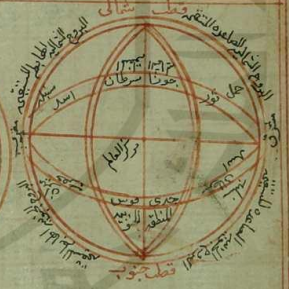

اعلم ان البروج الموجوده فى النصف الشمالى عالى والبروج الموجوده فى النصف الجنوبى هخفضه والخط الواصل من اول السرطان الى اول الجدى ينقطع الفلك نصفين احدهما صاعد وهو الجدى الى اول السرطان غايته الشمس من اول الجدى الى اول السرطان تكون تباعده من الحضيض الى الاوج لانحضيض الشمس قريب من الجدى واوجها قريب من السرطان والنصف الثانى هابط لان الشمس من السرطان الى الجدى تكون هابطه من الاوج الى الحضيض والنصف الصاعد اشرف من الهابط من وجه وهو من وجه اما وجه الشرف فلان العهود اشرف من الهبوط واما وجه الخسه فان البروج الصاعده تطلع مستقيمه واغاسميت مستوحه لقصور مطالعها بالنسبة الى مطالع فلك المستقيم والهابطه تطلع مستقيمه لازدياد مطالعها فى الفلك المستقيم والمستقيم ايضا افضل من المعوج والبروج المستقيمه زايدة المطالع والمعوجه ناقصة المطالع والزايد افضل من الناقص

جدول يتضمن مقادير الكواكب بعضها من بعض قرانا واستقبالا وتثليثا وتربيعا وتسديسا

المقارنه ان يكونا فى برج واحد فى درجة فى دقيقه

والاستقبال ان يكون فى المثانى

والتثليث ان يكون فى الثالث

والتربيع ان يكون بينهما وبين الاخر ربع الفلك عن الرابع

والتسديس اعنى سدس الفلك فى السادس

والمناظره معلومه

اعلم ان التسديس ان يكون بين الكوكبين وجه والتربيع ان يكون بينهما ثلثة وجوه والتثليث ان يكون بينهما اربعة وجوه والمقابله اجتماعهما فى برج واحد

اسماء البروج	زحل	مشترى	مريخ	شمس	زهرة	عطارد	قمر
حمل	ن	ل	ث	٤	س	ن	ل
ثور	ل	ن	ل	ث	٤	س	ن
جوزا	ن	ل	ن	ل	ث	٤	س
سرطان	س	ن	ل	ن	ل	ث	٤
اسد	٤	س	ن	ل	ن	ل	ث
سنبله	ث	٤	س	ن	ل	ن	ل
ميزان	ل	ث	٤	س	ن	ل	ن
عقرب	ن	ل	ث	٤	س	ن	ل
قوس	س	ن	ل	ث	٤	س	ن
جدى	٤	س	ن	ل	ث	٤	س
دلو	ث	٤	س	ن	ل	ث	٤
حوت	ل	ث	٤	س	ن	ل	ن

اعلم انك اذا اردت العمل بهذا الجدول اعرف الكواكب التى تريدهم فى اى برج والاخرى اى برج فادخل بطول الحدول الى برج الكوكب الاول والثانى فى عرضه وادخل فى المقابله الى الحانه فما وجدته من الحروف ان كان ن فهو اقتران وان كان ل فهو مقابله وان كان ث ساكنه وان كان ٤ تربيع وان كان س تسديس والله سبحانه وتعالى اعلم تمت

Copyright King Saud University