ولنقدم لبيانه شكلا ما ذكره الصر وهو لناسع من اوائل الاصول كل زاوية مستقيم الخطين فلنا ان نصفها وليكن زاوية ب ا ج ولنعين على اب نقطة د كيف اتفقت ونفصل من اج اه مثل اد ونرسم عليه مثلث د ه ز المتساوى الاضلاع ونصل از فهو نصف الزاوية لان اضلاع مثلثي د ز ه ز المتناظرة متساوية فزواياهما المتناظرة متساويتان زاد زاه متساويتان وذلك ما اردناه واذا تمهد هذا التصوير فنقول نريد ان نخرج من نقطة ا طرف خط اب عمودا عليه فلنعين ج ونجعل ج د مثل اج ونخرج من ج د عمود ي ج د ونصف زاويتي اج ه ج د ز بخطي ج ه د ه فخطا ج د ه اللذان وقع عليهما خط ج د وكانت الداخلتان في احدى الجهتين اصغرين قائمتين يتلاقيان في تلك الجهة بحكم المصادرة المشهورة فانها وان لم تكن مبينة بعد لكن سنبينها ان شاء الله تعالى من غير توقف على هذا الشكل فلتكن مسلمة هنا فليتلاقيا على ه ونجعل ج ح مثل د ه ونصل ح ا فلان ضلعي ج ح ج ا من مثلث ج ح ا مساويان لضلعي ج د ه د ه وزاوية ا ج ح من مثلث ج ح ا مساوية لزاوية ج د ه من مثلث ج د ه فيكون زاوية ج ح ا كزاوية ج د ه القائمة فهي ايضا قائمة فح ا عمود على اب وذلك ما اردناه العاشر نريد ان نخرج من نقطة ا الى خط مستقيم غير محدود وليس هي عليه عمودا عليه وانما قيدنا الخط بكونه غير محدود لان الخط المحدود ربما لا يمكن ان نخرج من نقطة معينة عمودا عليه مثلا نريد ان نخرج من نقطة ج الى خط اب الغير المحدود فنجعل نقطة ج مركز دائرة وندير دائرة تقطع خط اب على نقطتين ك ه وذلك بان نعين في الجهة الاخرى من الخط نقطة ك فقط ونديرها بعد ج د ونتصف خط ك ه الواقع في الدائرة على ح كما بينه اقليدس في العاشر من اولى كتابه فاقول نريد ان نصف خطا محدودا كخط اب مثلا فلنعمل عليه مثلث اج ب المتساوي الاضلاع ونصف زاوية ج بخط ج د فينصف الخط به لان في مثلثي اج د بج د ضلعي اج ج د وزاوية اج د مساوية لضلعي

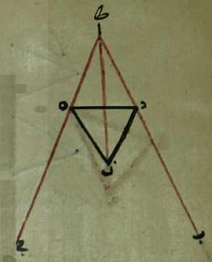


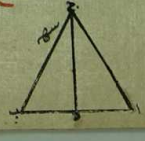

لضلعي بج ج د وزاوية بج د فاذن ضلعا اد ب متساويان وذلك ما اردناه وهذا الشكل ايضا مما اهمله الصر ولنعد الى بيانه كما كنا في بيانه ونصل ج ح فهو العمود المطلوب وذلك لانا اذا وصلنا ح ج ز يحصل مثلثان متساوي الزوايا وهما مثلثا ج ح ه ج ح د وبيانه كما مر اي كالبيان المار في الشكل المتقدم اي التاسع وهو ان ج ه ج ز لان كلا منهما نصف قطر دائرة واحدة و ه ج ح ز بالعمل وج ح مشترك بين المثلثين فزواياهما متساوية على التناظر فزا ويتا ج ح ه ج ح ز متساويتان بل قائمتان فح عمود مخرج من نقطة ج على خط اب وذلك ما اردناه الحادي عشر الزاويتان المتقابلتان الحادثتان عن تقاطع كل خطين مستقيمين متساويتان مثلا كزاويتي ج ه ب ا ه د الحادثتين عن تقاطع خطي اب ج د وذلك لان مجموع زاويتي ب ه ج ا ه ج الحادثتين عن جنبتي خط ج ه القائم على خط اب يساوي مجموع زاويتي ا ه ج ا ه د الحادثتين عن جنبتي خط ا ه القائم على خط ج د لكون كل واحد من المجموعين معادلا لقائمتين كما مر في الشكل الاول فيبقى بعد اسقاط زاوية ج ه ا المشتركة بين المجموعين زاويتا ج ه ب ا ه د المتقابلتان متساويتين وذلك ما اردناه ههه الثاني عشر كل مثلث اخرج احد اضلاعه فالزاوية الخارجة من المثلث الحادثة بسبب ذلك الاخراج اعظم من كل واحدة من مقابلتيها الداخلتين في ذلك المثلث اي من كل زاوية في المثلث هي غير مجاورتها مثلا اخرج ضلع ب ج من مثلث ا ب ج في جهة ج الى د فنقول فزاوية ا ج د الخارجة اعظم من كل واحدة من زاويتي ا ب الداخلتين المتقابلتين لها وذلك لانا لو نصفنا خط ا ج على نقطة ه كما بينا في العاشر او لى الاصول ونصل ب ه ونخرجه بقدر ه ز ب ا الثاني من اولى الاصول وقد اسلفناه في المامونى ونصل ا ج فمثلثي ا ب ه ج ه ز ضلعا ب ه ا متساويان لضلعي ز ه ج ا ه ج بالعمل وقد بلناه بعني زاويتي ب ه ز ج ه متساويتان كما مر في الشكل الحادي عشر من ان المقابلتين